В пять одинаковых стаканов с водными растворами веществ при 20 °C поместили алюминиевые пластинки.

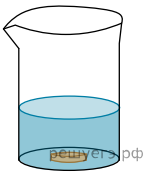

1) NaOH

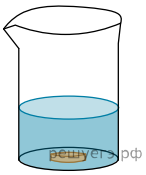

2) LiCl

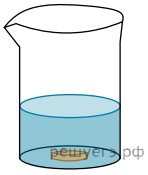

3) HNO_3 (конц.)

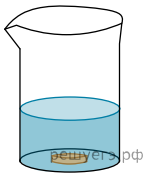

4) $CaBr_2$

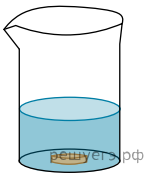

5) H_2SO_4 (конц.)

Определите число стаканов, в которых протекает реакция с образованием соли алюминия (гидролиз не учитывать).